3) الهتزازين متعامدين يكن وضعهما بالمعادلتين

$$X = 10\cos 5\pi t$$

$$y = 10\cos(10\pi t + \pi/3)$$

ارسم شكل ليساجو الحركة المركبة

* من المعادلتين نلاحظ ما يلي

$$\omega_1 = 5\pi \quad \omega_2 = 10\pi$$

$$\frac{\omega_1}{\omega_2} = \frac{5\pi}{10\pi} = \frac{1}{2}$$

أي أن النسبة بين ترددي الحركتين كنسبة 2:1

* وأن الفرق بالطور بين الاهتزازين $(\theta = \pi/3)$

* أما السعة للاهتزازين فهي

$$A_1 = A_2 = A = 10$$

أن إذا قطرين الدائرتين تكون متساويين

— ويمثل شكل ليساجو للاهتزازين كما يلي:

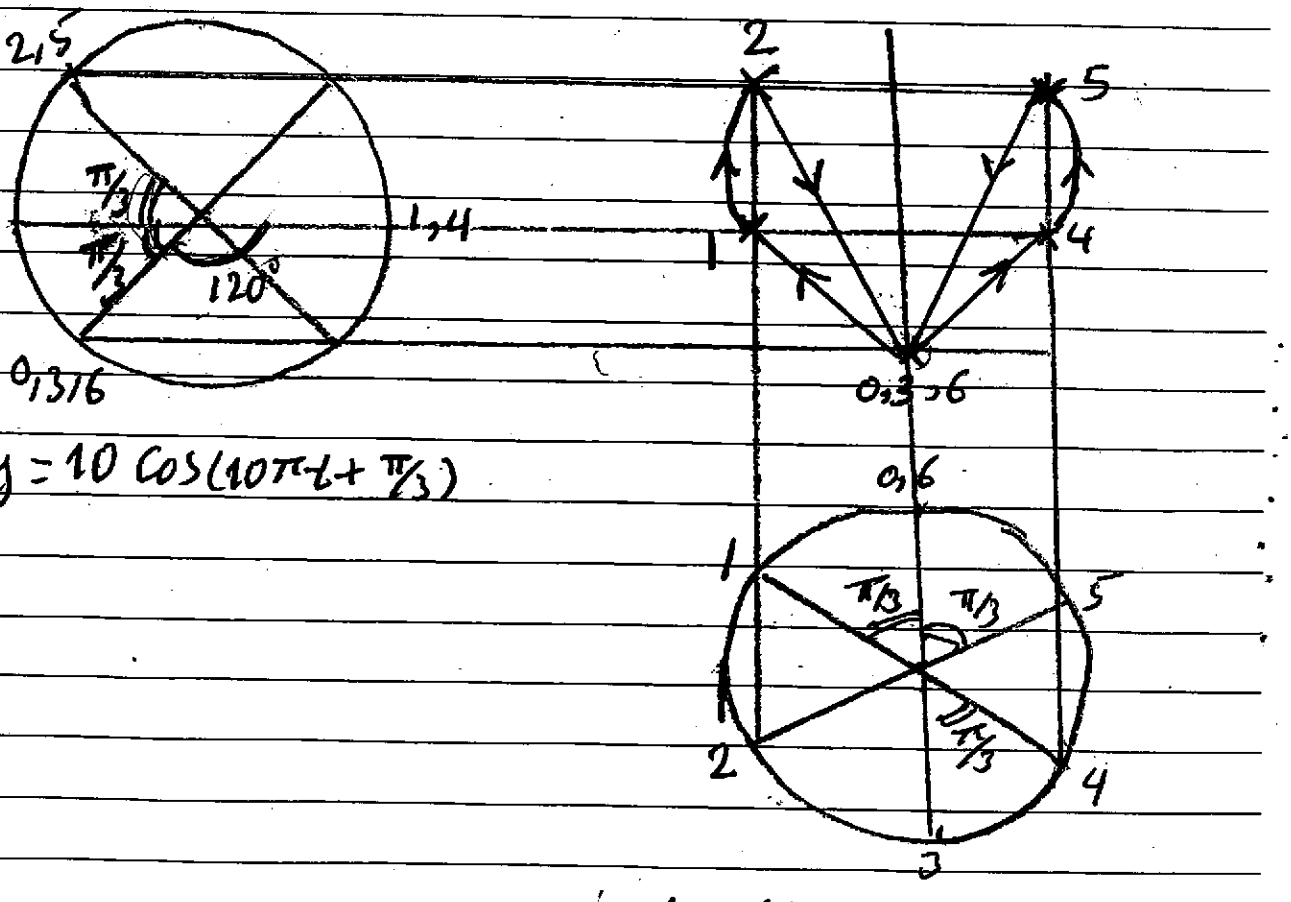

س٩) ارسم أشكال ليساجو في الحركات التالية:

a) $X = \cos 2\omega t$ ---(1)

$y = \sin 2\omega t$ ---(2)

الحل: نكتب المعادلتين بدلالة sin كما يلي:

$X = \sin(2\omega t + \pi/2)$ ---(3)

$y = \sin 2\omega t$ ---(4)

المعادلتين ③ و ④ فيهما

السعتان متساويتان $A_1 = A_2 = 1$

الترددان متساويان $\omega_1 = \omega_2 = 2\omega$

فرق الطور باتجاه محور X $\theta = \pi/2$

وبذلك يمكن رسم الدائرتين كما يلي:

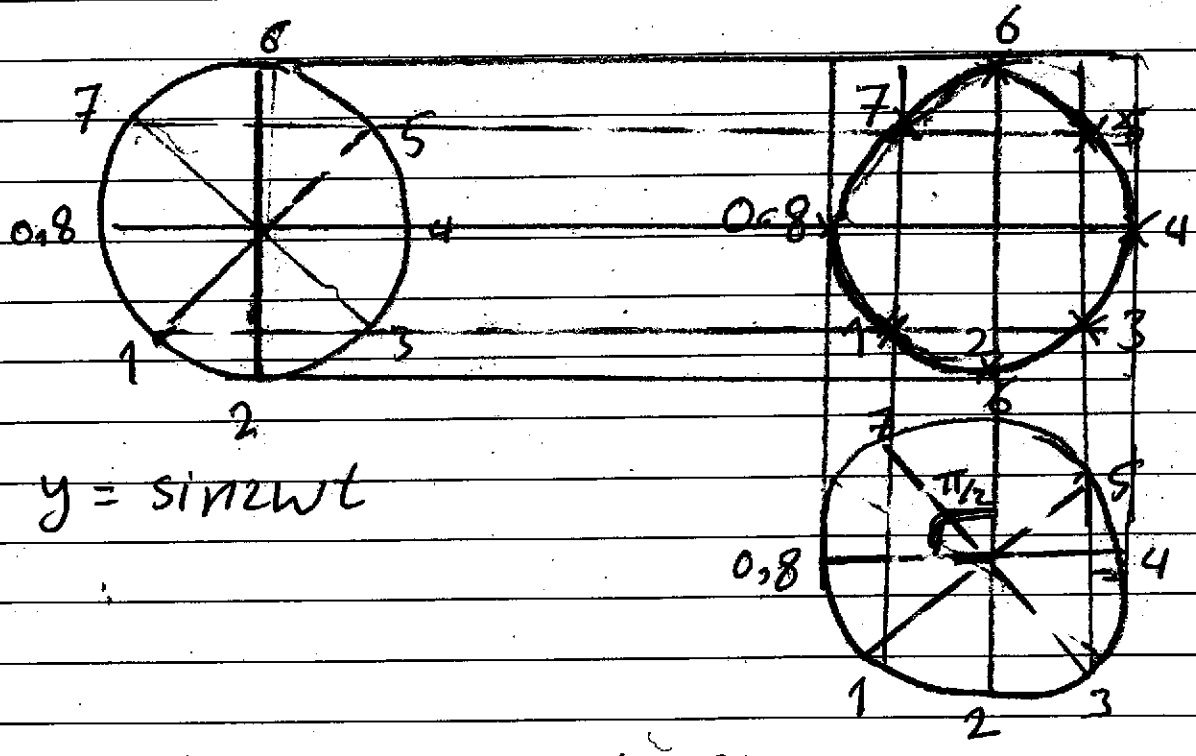

$y = \sin 2\omega t$

$X = \sin(2\omega t + \pi/2)$

b) $X = \cos 2\omega t$

$y = \cos(2\omega t - \pi/4)$

(سؤال)

الحل:

$A_1 = A_2 = 1$ السعتان متساويتان

$\omega_1 = \omega_2 = 2\omega$ التردداتان متساويتان

$\theta = -\pi/4$ فرق الطور $(-\pi/4)$ باتجاه المحور y

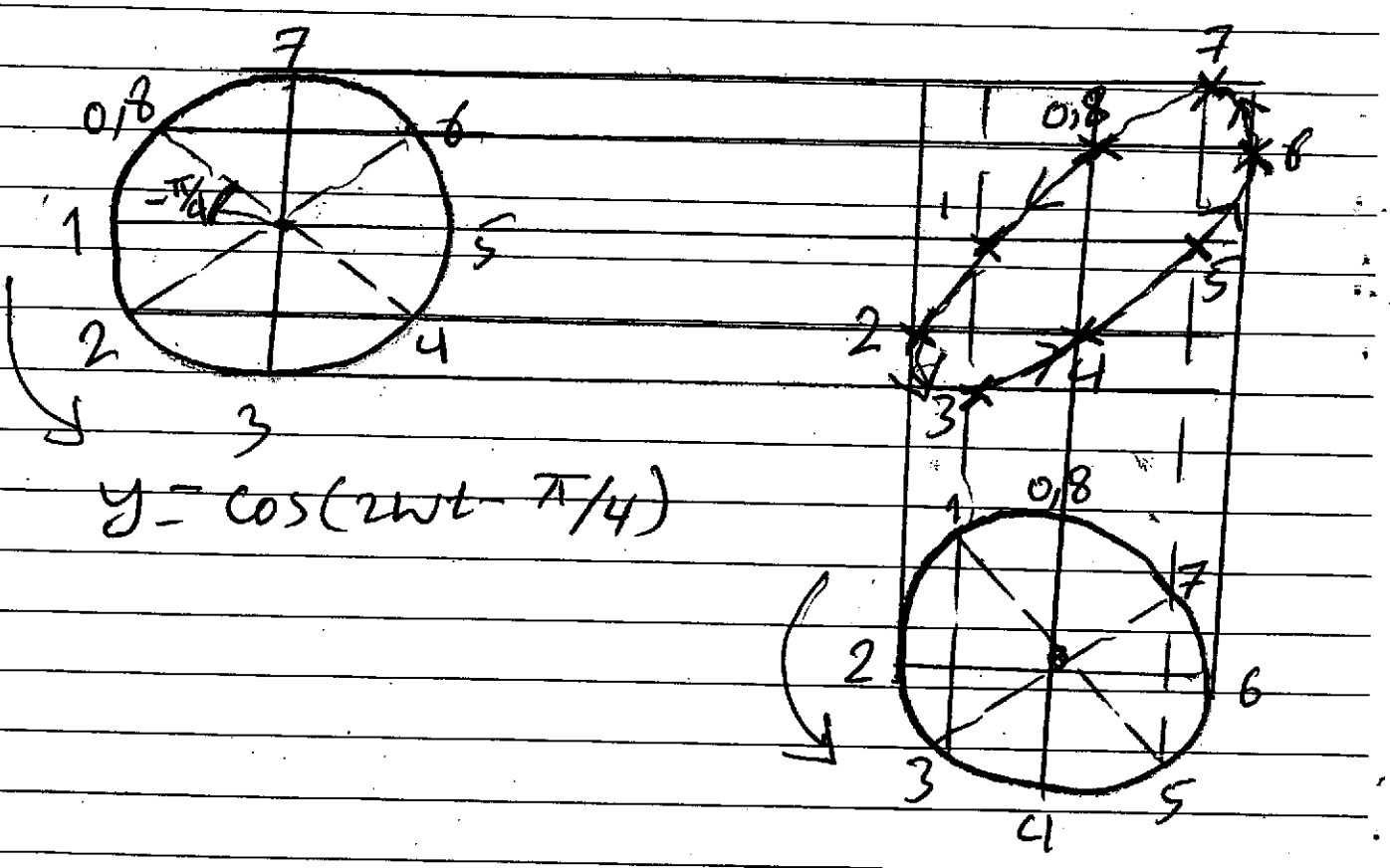

(6)

$X = \cos 2\omega t$

$Y = \cos \omega t$

مثل (6) 3.5

$A_1 = A_2 = 1$

$\omega_1 = 2\omega_1$

$\theta = 0$

الحالة الأولى

السعتان متساويتان

التردد بالاتجاه X ضعف التردد بالاتجاه Y

فرق الطور يساوي الصفر

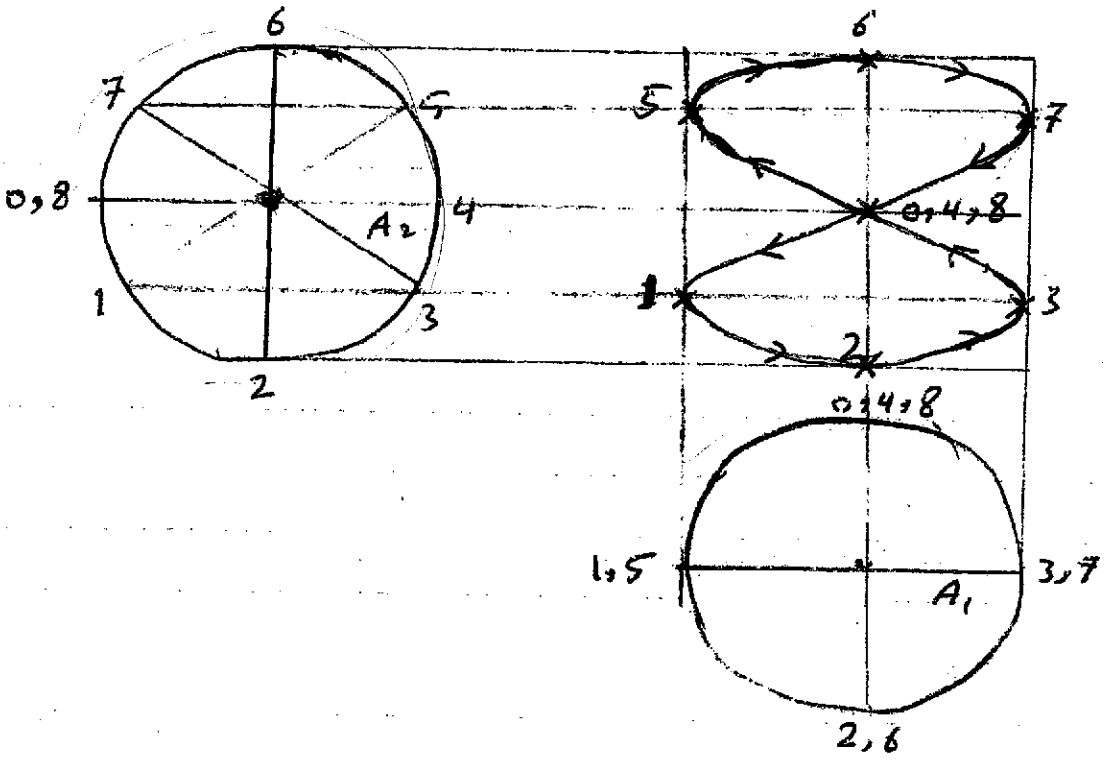

س (13-3) ΔP $f_1 = ?$

شوكة رنانة مجهولة التردد تعمل ثلاث ضربات في الثانية مع شوكة رنانة قياسية ترددها 384 Hz (f_2) هيرتز ويقل تردد الضربات عند لصق قطعة صغيرة من الشمع على أحد شفرتي الشوكة الأولى. ما هو تردد هذه الشوكة؟

$f_1 = ?$, $f_2 = 384\ Hz$, $\Delta f = 3$

$\Delta f = |f_2 - f_1| \Rightarrow f_1 = f_2 \pm \Delta f$?

الحل: $f_1 = 387$ قبل اللصق، $f_2 = 384\ Hz$

$f_1 = 381\ Hz$

عند لصق الشمع يقل Δf على أحد طرفي الشوكة الأولى (لأن الشمع يزيد من كتلة الشوكة) ومن المعروف أن لصق قطعة من الشمع على أحد طرفي شوكة رنانة يقلل من ترددها أي أن f_1 تصبح أقل مما كانت عليه، وهذا يعني أن f_1 كان أكبر من f_2 لأنه يقل تردد الضربات Δf أي أن

$$f_1 = f_2 + \Delta f = 384 + 3 = 387\ Hz$$

س (15-3) f_2 f_1

شوكتا رنين ترددهما 164 و 592 هيرتز على التوالي. جد تردد الضربات الناتجة من اهتزازهما معاً.

الحل: $f = \frac{f_1 + f_2}{2}$

$f_1 = 164\ Hz$, $f_2 = 592\ Hz$

$\Delta f = 592 - 164 = 428\ Hz$

أن ظاهرة الضربات تتحقق فقط عندما يكون الفرق بالتردد بين بكرتين قليل ولا يتجاوز (10 Hz). أي لا تحصل هنا ضربات.